

Università degli Studi di Milano
Facoltà di Medicina e Chirurgia

CORSO DI LAUREA : INFERMIERISTICA

Corso di Fisica A.A. 2022-2023

Docente: Marie Claire Cantone

marie.cantone@unimi.it

2. MECCANICA

MECCANICA

CINEMATICA – descrive il moto a prescindere dalle cause.

DINAMICA – studia le equazioni del moto note le forze applicate.

STATICA – studia le condizioni di equilibrio per i corpi rigidi.

2.1 CINEMATICA

Cinematica

Lo spostamento $\vec{s}$ è un vettore.

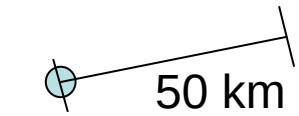

modulo

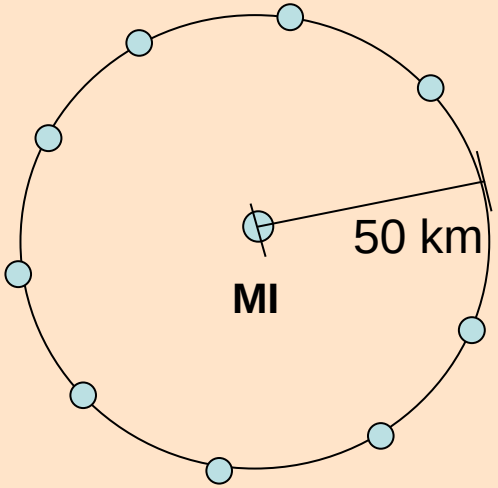

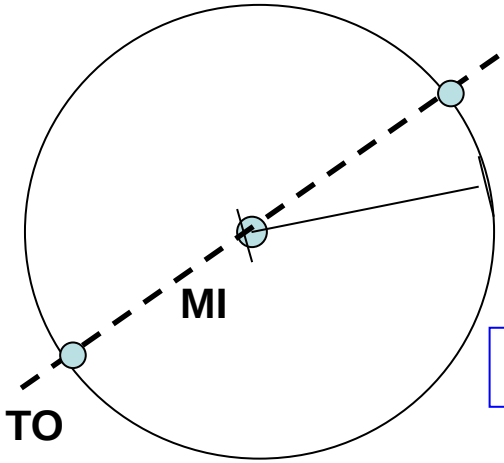

direzione

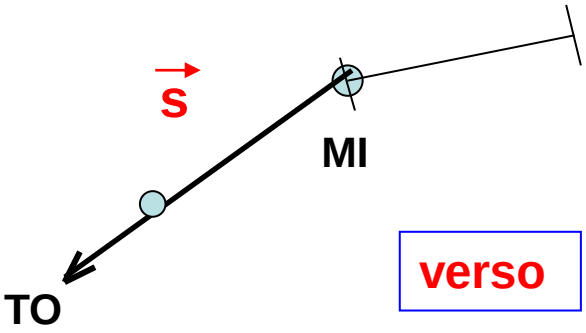

verso

VELOCITA’

- esprime la rapidità di movimento di un corpo;
- è definita come rapporto fra la variazione di posizione del corpo (spostamento) e l’intervallo di tempo in cui essa avviene.

velocità media

$$\vec{v}_m = \frac{\vec{x}_2 - \vec{x}_1}{t_2 - t_1} = \frac{\Delta\vec{x}}{\Delta t}$$

velocità istantanea

$$\vec{v} = \lim_{\Delta t \to 0} \vec{v}_m = \frac{d\vec{x}}{dt}$$

unità di misura S.I. $m\ s^{-1}$

dimensioni fisiche $[v] = [LT^{-1}]$

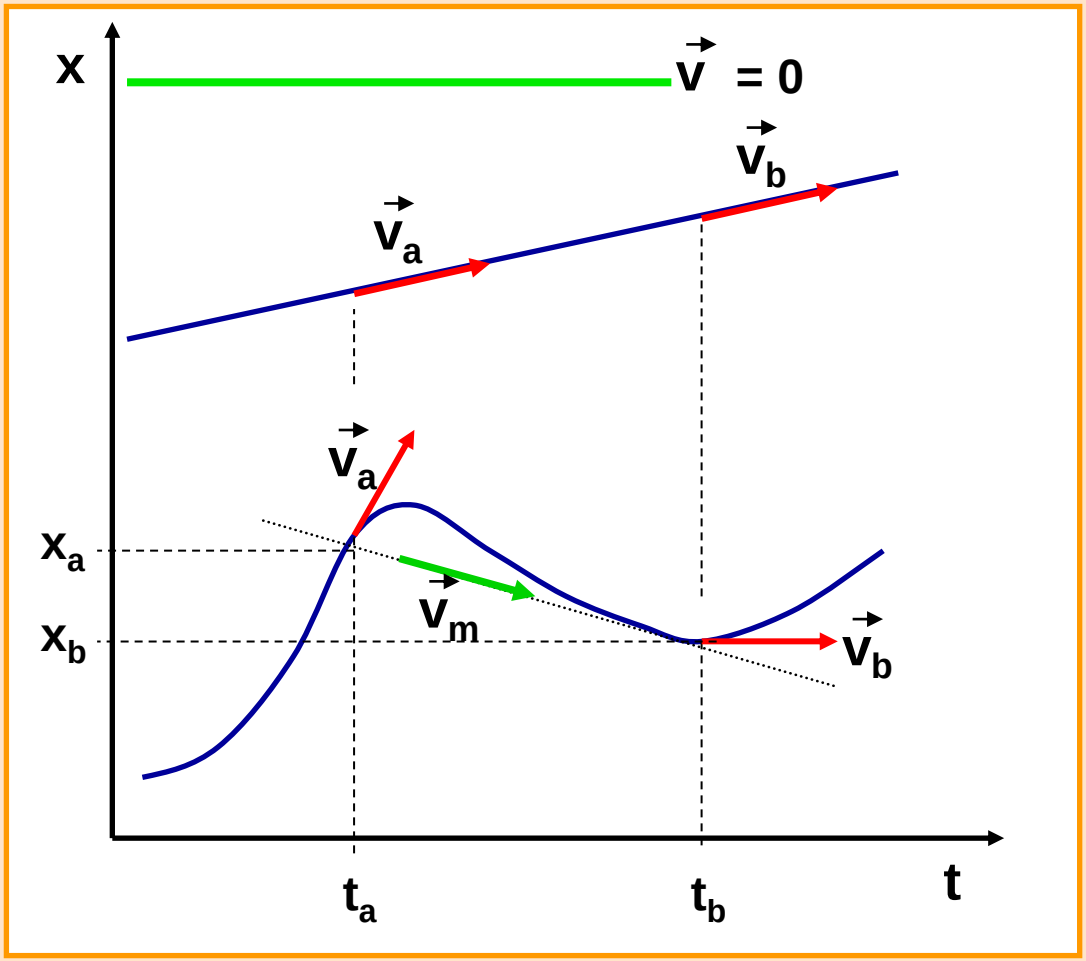

moto rettilineo uniforme

$$\vec{v}_m = \vec{v}_a = \vec{v}_b = \vec{v}$$

moto a velocità variabile

La velocità di un corpo in un certo istante è indicata dalla pendenza della funzione x(t) in quell'istante, ovvero è rappresentata geometricamente dalla tangente alla curva.

ACCELERAZIONE

- esprime la rapidità di variazione della velocità (>0 se la velocità aumenta, <0 se la velocità diminuisce).
- è definita come rapporto fra la variazione di velocità e l'intervallo di tempo in cui essa avviene.

accelerazione media $\vec{a}_m = \dfrac{\vec{v}_2 - \vec{v}_1}{t_2 - t_1} = \dfrac{\Delta\vec{v}}{\Delta t}$

accelerazione istantanea $\vec{a} = \lim_{\Delta t \to 0} \vec{a}_m = \dfrac{d\vec{v}}{dt}$

unità di misura S.I. $m\ s^{-2}$

dimensioni fisiche $[a] = [LT^{-2}]$

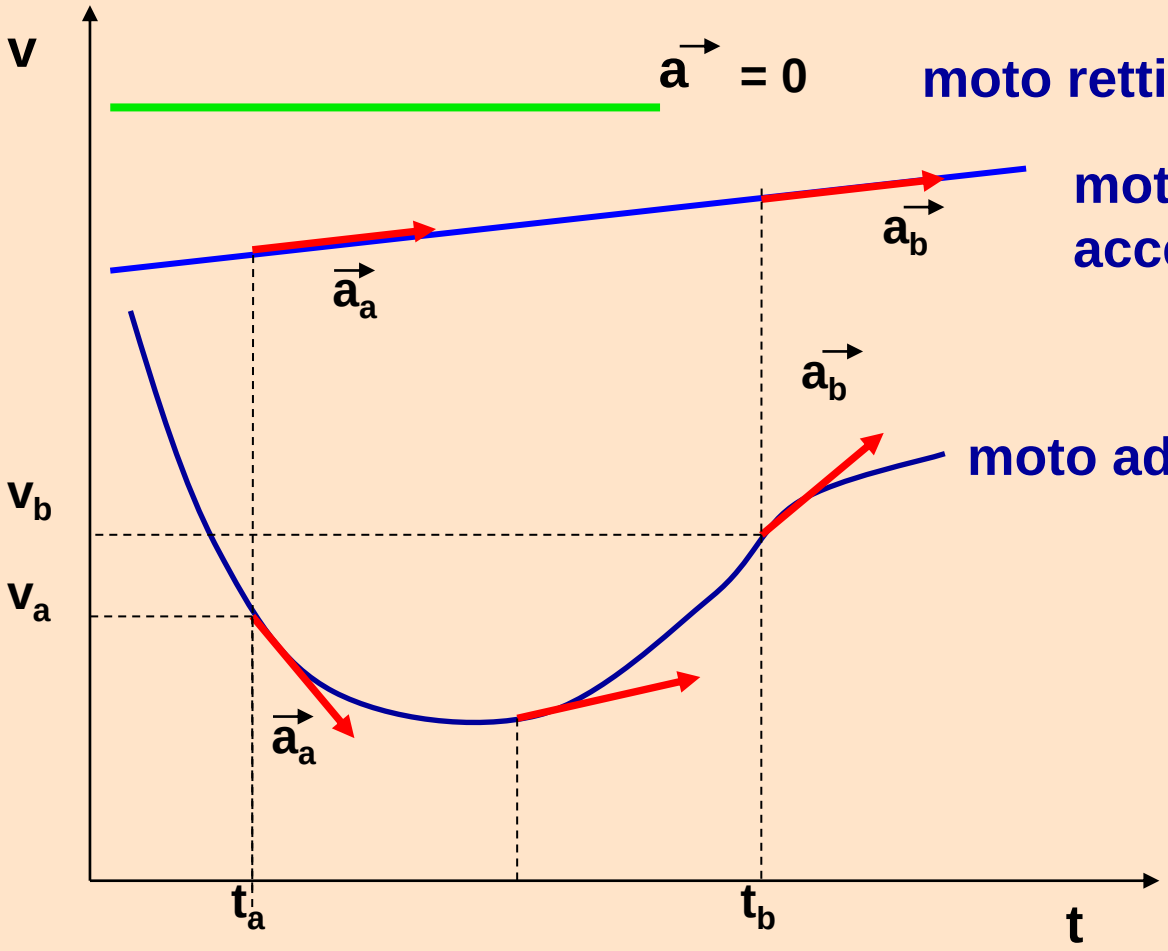

L'accelerazione di un corpo in un certo istante è indicata dalla pendenza della funzione v(t) in quell'istante, ovvero è rappresentata geometricamente dalla tangente alla curva .

Moto rettilineo uniforme

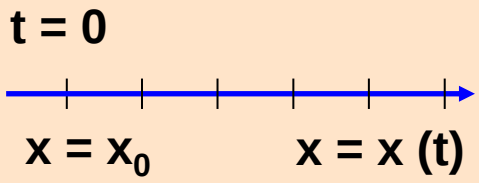

$x = x_0 + vt$

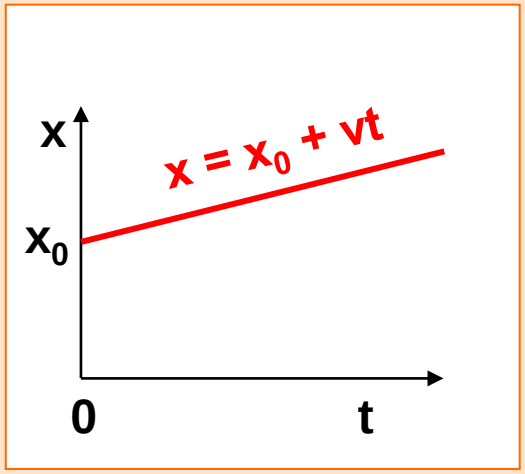

- $\vec{v}$ è cost in modulo, direzione e verso;
- la traiettoria è rettilinea;
- $\vec{a}$ è nulla;
- il grafico spazio-tempo è una retta;
- la legge oraria è una funzione lineare del tempo.

Moto rettilineo uniformemente accelerato

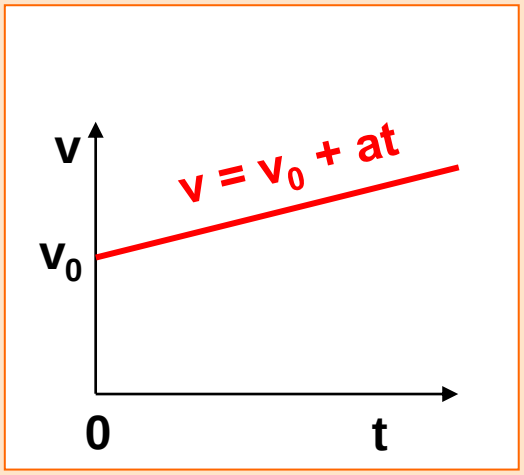

$$x = x_0 + v_0 t + \tfrac{1}{2} a t^2$$

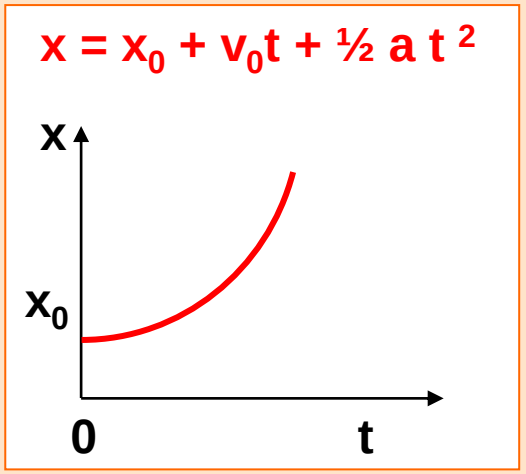

- $\vec{a}$ è cost in modulo, direzione e verso;
- la traiettoria è rettilinea;
- $\vec{v}$ è diretta come $\vec{a}$ se $v_0 = 0$ o se $\vec{v}_0$ è diretta come $\vec{a}$;
- il grafico velocità-tempo è una retta;
- la legge oraria è una funzione parabolica del tempo.

Dal grafico della posizione in funzione del tempo riportato in figura, trovare la velocità media :

1) da t = 0 secondi a t = 10 secondi

2) da t = 0 secondi a t = 20 secondi

3) da t = 0 secondi a t = 40 secondi

e trovare la velocità istantanea per t = 5 s, t = 15 s, t = 25 s.

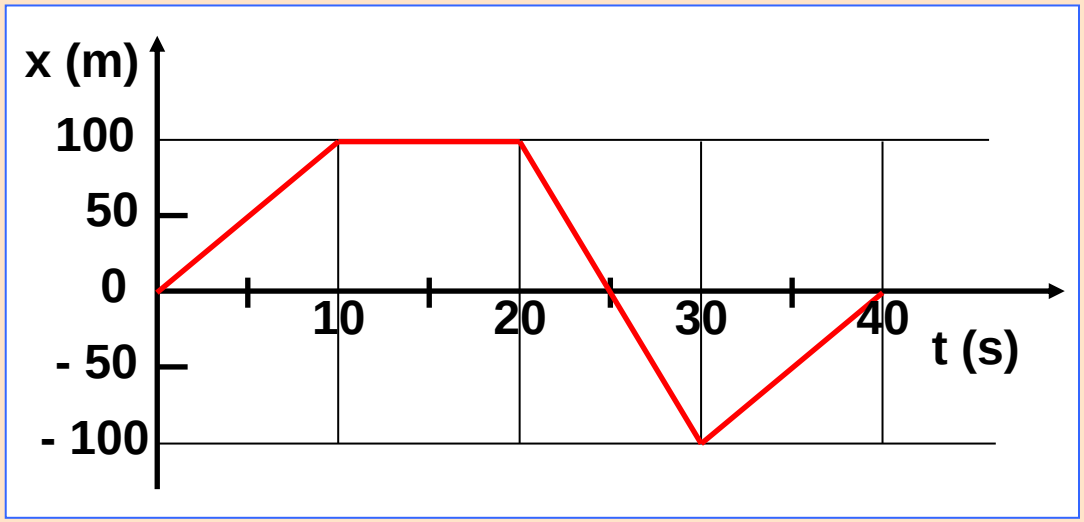

Dal grafico della posizione in funzione del tempo riportato in figura, trovare la velocità media :

1) da t = 0 secondi a t = 10 secondi

2) da t = 0 secondi a t = 20 secondi

3) da t = 0 secondi a t = 40 secondi

e trovare la velocità istantanea per t = 5 s, t = 15 s, t = 25 s.

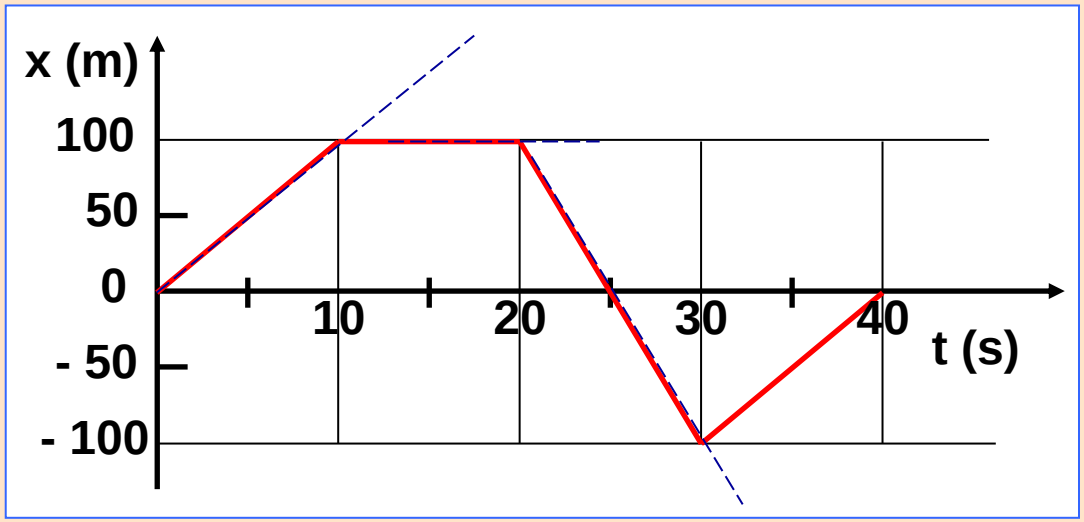

$$\vec{v}_m = \frac{\Delta \vec{x}}{\Delta t}$$

Dal grafico della posizione in funzione del tempo riportato in figura, trovare la velocità media :

1) da t = 0 secondi a t = 10 secondi

2) da t = 0 secondi a t = 20 secondi

3) da t = 0 secondi a t = 40 secondi

e trovare la velocità istantanea per t = 5 s, t = 15 s, t = 25 s.

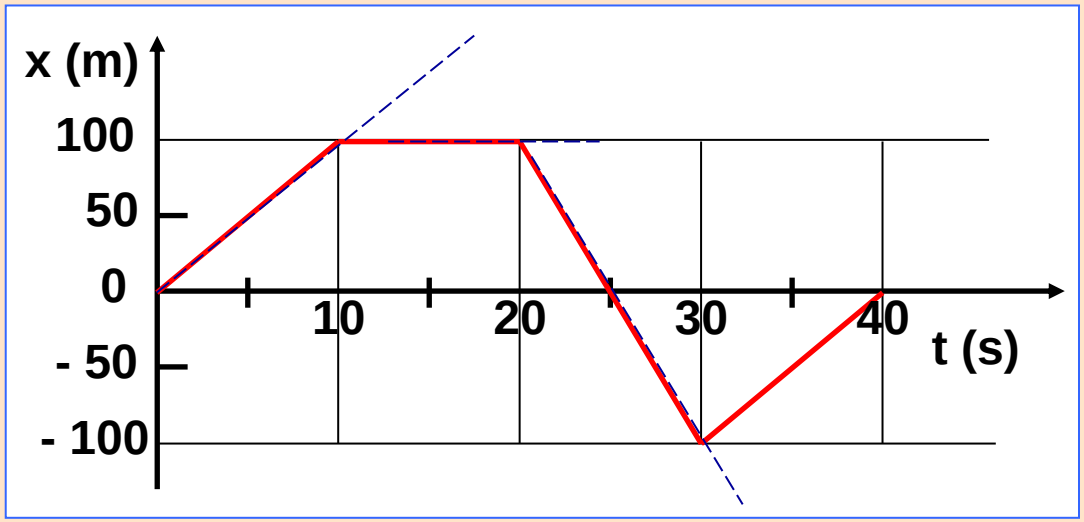

$$\vec{v}_m = \frac{\Delta \vec{x}}{\Delta t}$$

$v_m = (+100 - 0) / 10 = 10$ m/s

Dal grafico della posizione in funzione del tempo riportato in figura, trovare la velocità media :

1) da t = 0 secondi a t = 10 secondi

2) da t = 0 secondi a t = 20 secondi

3) da t = 0 secondi a t = 40 secondi

e trovare la velocità istantanea per t = 5 s, t = 15 s, t = 25 s.

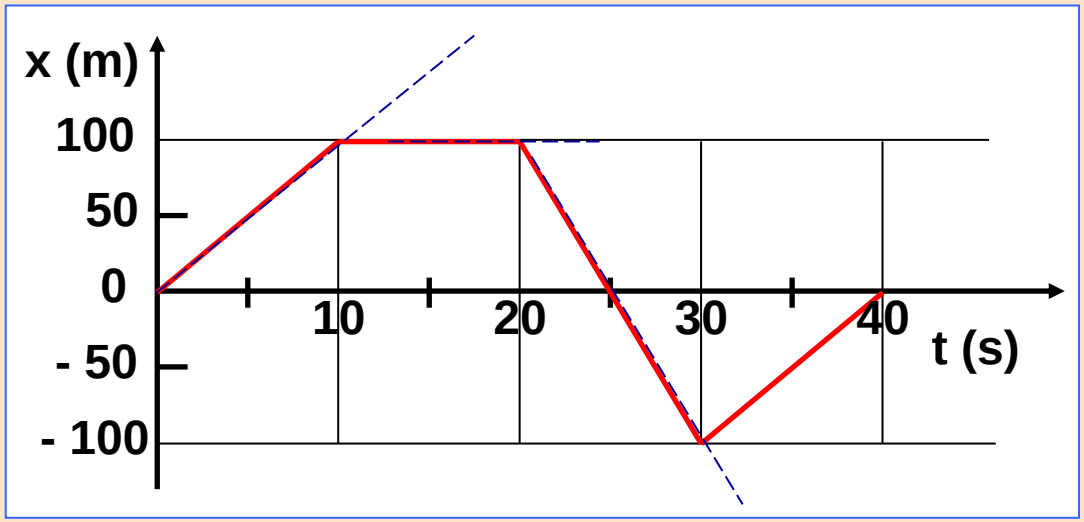

$$\vec{v}_m = \frac{\Delta \vec{x}}{\Delta t}$$

$v_m = (+100 - 0) / 10 = 10$ m/s

$v_m = (+100 - 0) / 20 = 5$ m/s

$v_m = (0 - 0) / 40 = 0$ m/s

Dal grafico della posizione in funzione del tempo riportato in figura, trovare la velocità media :

1) da t = 0 secondi a t = 10 secondi

2) da t = 0 secondi a t = 20 secondi

3) da t = 0 secondi a t = 40 secondi

e trovare la velocità istantanea per t = 5 s, t = 15 s, t = 25 s.

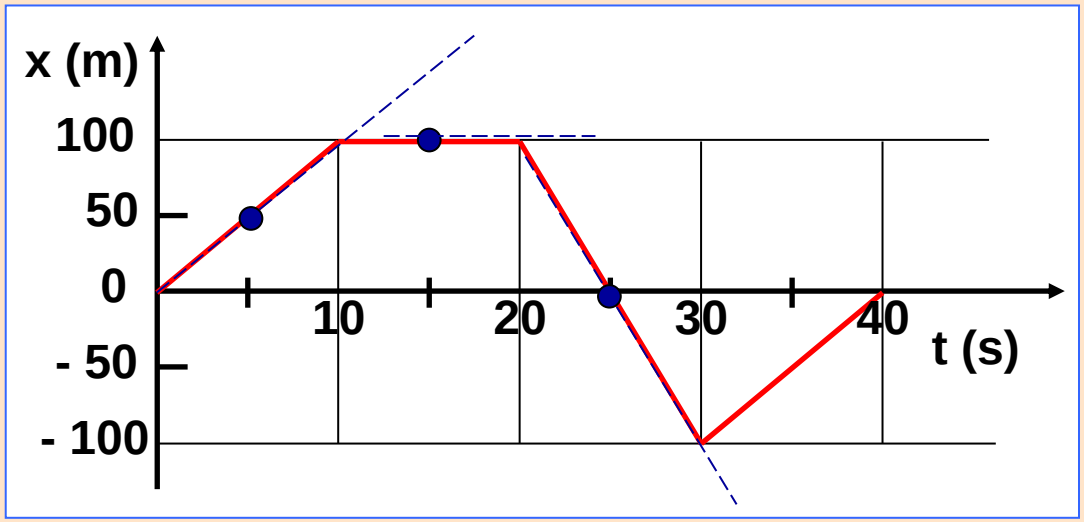

$$\vec{v}_m = \frac{\Delta \vec{x}}{\Delta t}$$

$v_m = (+100 - 0) / 10 = 10$ m/s

$v_m = (+100 - 0) / 20 = 5$ m/s

$v_m = (0 - 0) / 40 = 0$ m/s

$$\vec{v}_{ist} = \lim_{\Delta t \to 0} \frac{\Delta \vec{x}}{\Delta t}$$

t = 5 s

t = 15 s

t = 25 s

Dal grafico della posizione in funzione del tempo riportato in figura, trovare la velocità media :

1) da t = 0 secondi a t = 10 secondi

2) da t = 0 secondi a t = 20 secondi

3) da t = 0 secondi a t = 40 secondi

e trovare la velocità istantanea per t = 5 s, t = 15 s, t = 25 s.

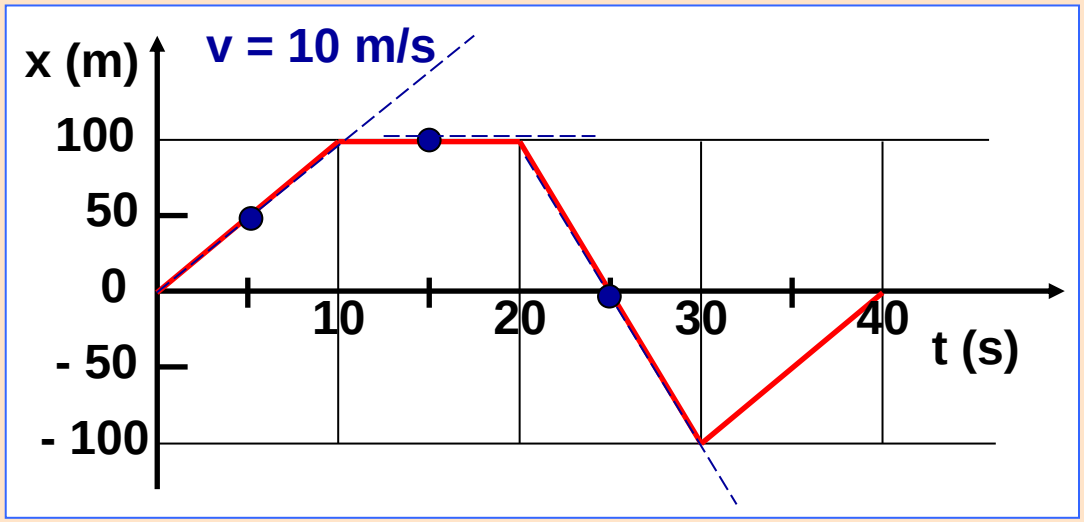

$$\vec{v}_m = \frac{\Delta \vec{x}}{\Delta t}$$

$v_m = (+100 - 0) / 10 = 10$ m/s

$v_m = (+100 - 0) / 20 = 5$ m/s

$v_m = (0 - 0) / 40 = 0$ m/s

$$\vec{v}_{ist} = \lim_{\Delta t \to 0} \frac{\Delta \vec{x}}{\Delta t}$$

t = 5 s

t = 15 s

t = 25 s

$v_{ist} = 10$ m/s

Dal grafico della posizione in funzione del tempo riportato in figura, trovare la velocità media :

1) da t = 0 secondi a t = 10 secondi

2) da t = 0 secondi a t = 20 secondi

3) da t = 0 secondi a t = 40 secondi

e trovare la velocità istantanea per t = 5 s, t = 15 s, t = 25 s.

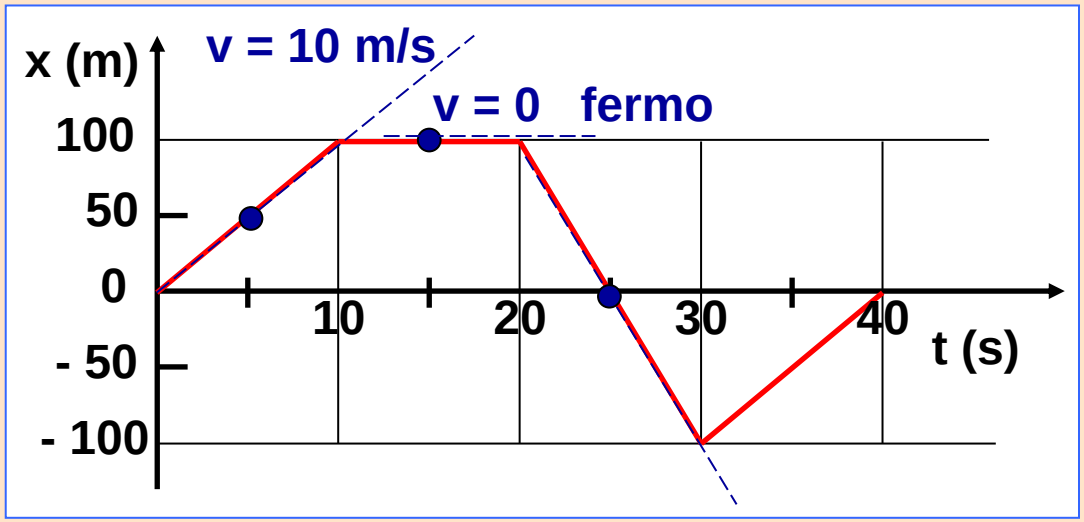

$$\vec{v}_m = \frac{\Delta \vec{x}}{\Delta t}$$

$v_m = (+100 - 0) / 10 = 10$ m/s

$v_m = (+100 - 0) / 20 = 5$ m/s

$v_m = (0 - 0) / 40 = 0$ m/s

$$\vec{v}_{ist} = \lim_{\Delta t \to 0} \frac{\Delta \vec{x}}{\Delta t}$$

t = 5 s $\quad v_{ist} = 10$ m/s

t = 15 s $\quad v_{ist} = 0$ m/s

t = 25 s

Dal grafico della posizione in funzione del tempo riportato in figura, trovare la velocità media :

1) da t = 0 secondi a t = 10 secondi

2) da t = 0 secondi a t = 20 secondi

3) da t = 0 secondi a t = 40 secondi

e trovare la velocità istantanea per t = 5 s, t = 15 s, t = 25 s.

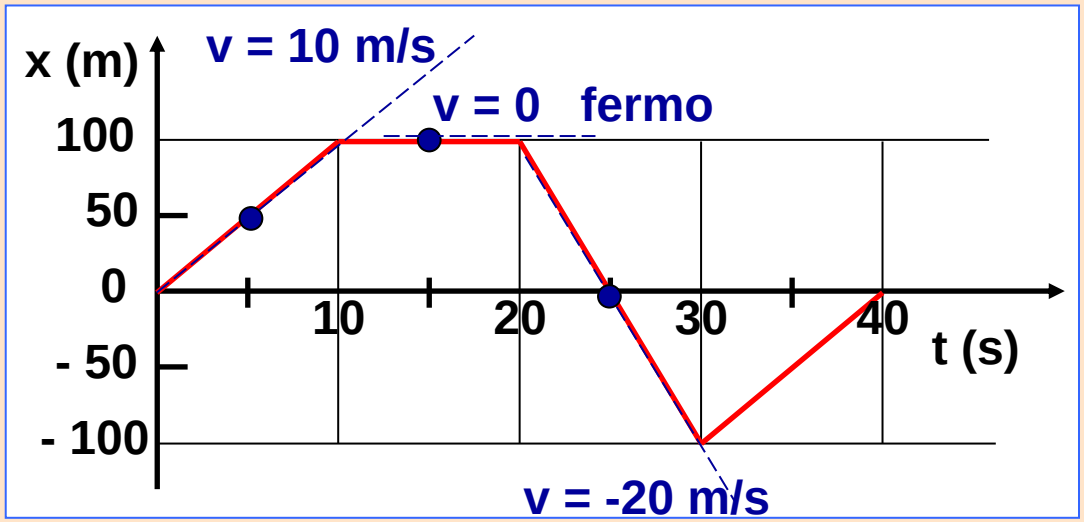

$$\vec{v}_m = \frac{\Delta \vec{x}}{\Delta t}$$

$v_m = (+100 - 0) / 10 = 10$ m/s

$v_m = (+100 - 0) / 20 = 5$ m/s

$v_m = (0 - 0) / 40 = 0$ m/s

$$\vec{v}_{ist} = \lim_{\Delta t \to 0} \frac{\Delta \vec{x}}{\Delta t}$$

t = 5 s $\quad v_{ist} = 10$ m/s

t = 15 s $\quad v_{ist} = 0$ m/s

t = 25 s $\quad v_{ist} = (- 100 - 100) / 10 = - 20$ m/s

Un' automobile, inizialmente ferma, accelera con un'accelerazione costante di 2 ms^{-2} su una strada rettilinea dove il traffico si muove ad una velocità costante di 18 ms^{-1}.

Calcolare quanto tempo l'automobile impiega a raggiungere tale velocità e quanta strada percorre in quel intervallo di tempo.

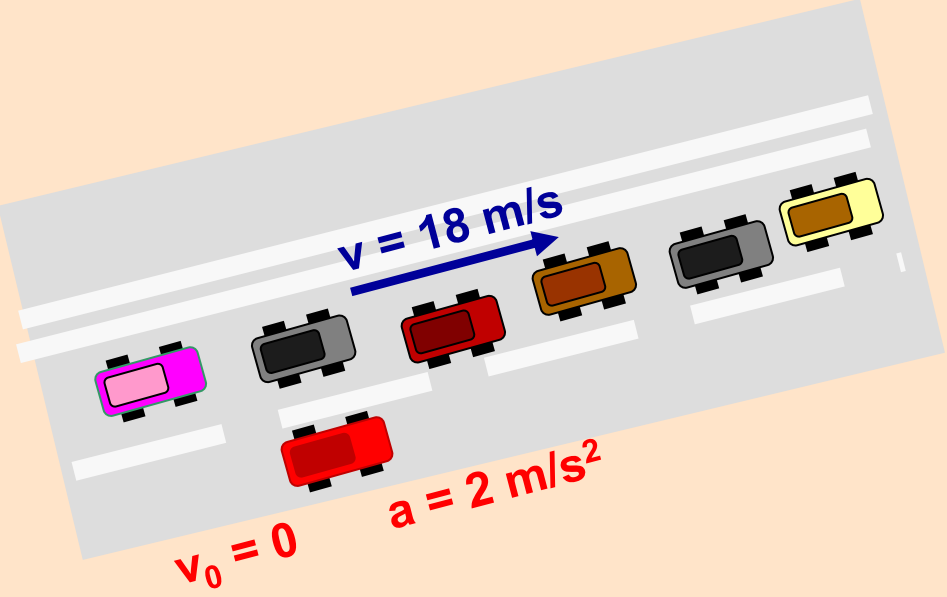

Un' automobile, inizialmente ferma, accelera con un'accelerazione costante di 2 ms^{-2} su una strada rettilinea dove il traffico si muove ad una velocità costante di 18 ms^{-1}.

Calcolare quanto tempo l'automobile impiega a raggiungere tale velocità e quanta strada percorre in quel intervallo di tempo.

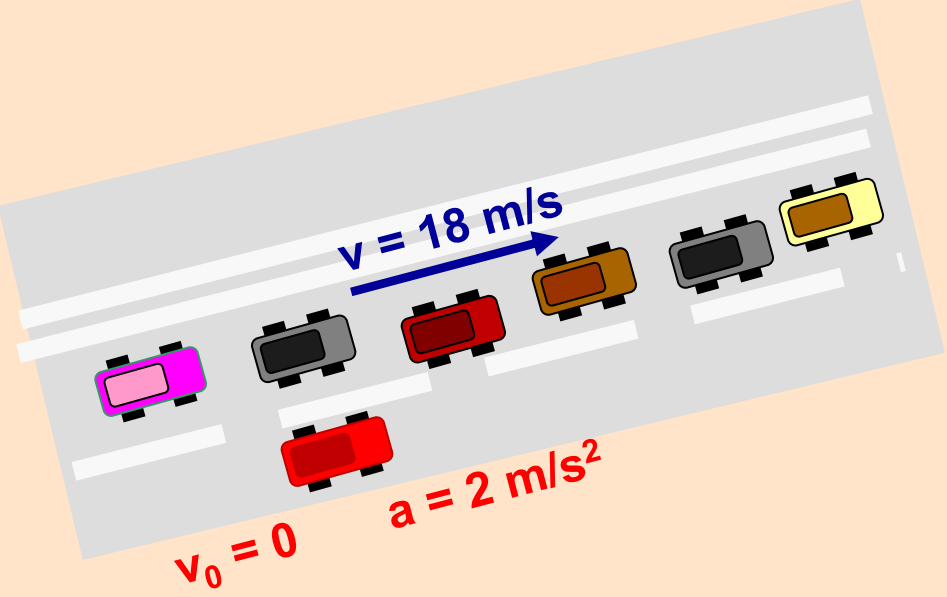

$a = (v - v_0) / \Delta t$

$t = v / a$

tempo impiegato per raggiungere v = 18 ms^{-1}

Un' automobile, inizialmente ferma, accelera con un'accelerazione costante di 2 ms^{-2} su una strada rettilinea dove il traffico si muove ad una velocità costante di 18 ms^{-1}.

Calcolare quanto tempo l'automobile impiega a raggiungere tale velocità e quanta strada percorre in quel intervallo di tempo.

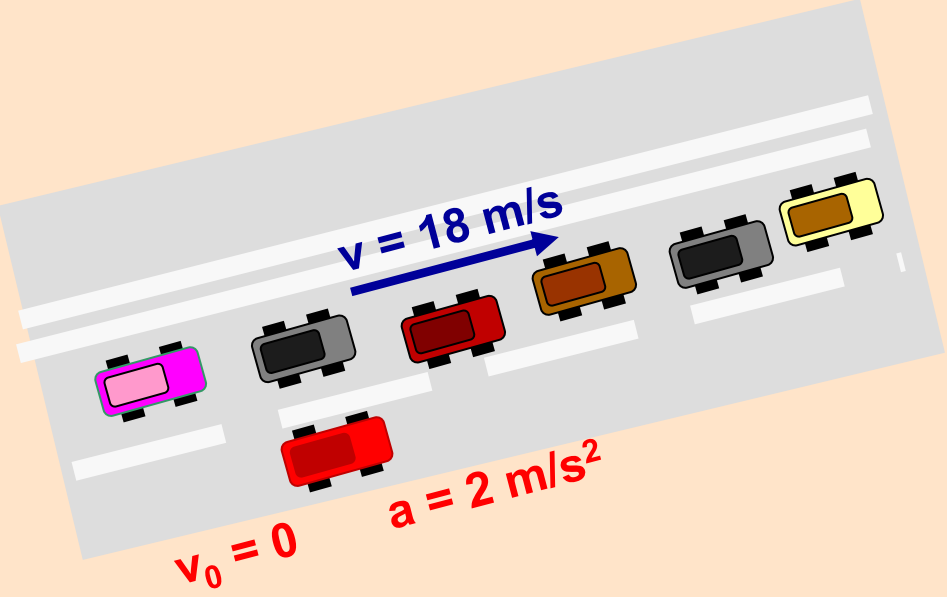

$$a = (v - v_0) / \Delta t$$

$$t = v / a$$

tempo impiegato per raggiungere v = 18 ms^{-1}

$$t = \frac{18\ ms^{-1}}{2\ ms^{-2}} = 9\ s$$

Un' automobile, inizialmente ferma, accelera con un'accelerazione costante di 2 ms^{-2} su una strada rettilinea dove il traffico si muove ad una velocità costante di 18 ms^{-1}.

Calcolare quanto tempo l'automobile impiega a raggiungere tale velocità e quanta strada percorre in quel intervallo di tempo.

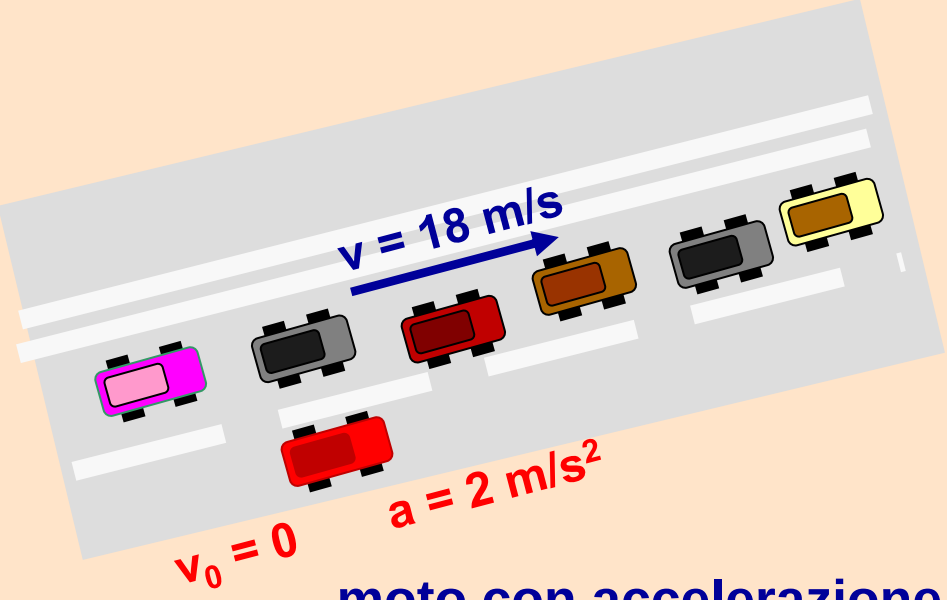

$$a = (v - v_0) / \Delta t$$

$$t = v / a$$

tempo impiegato per raggiungere v = 18 ms^{-1}

$$t = \frac{18\ ms^{-1}}{2\ ms^{-2}} = 9\ s$$

moto con accelerazione costante (uniformemente accelerato)

$$x = x_0 + v_0 t + \tfrac{1}{2}\, a\, t^2$$

Un' automobile, inizialmente ferma, accelera con un'accelerazione costante di 2 ms^{-2} su una strada rettilinea dove il traffico si muove ad una velocità costante di 18 ms^{-1}.

Calcolare quanto tempo l'automobile impiega a raggiungere tale velocità e quanta strada percorre in quel intervallo di tempo.

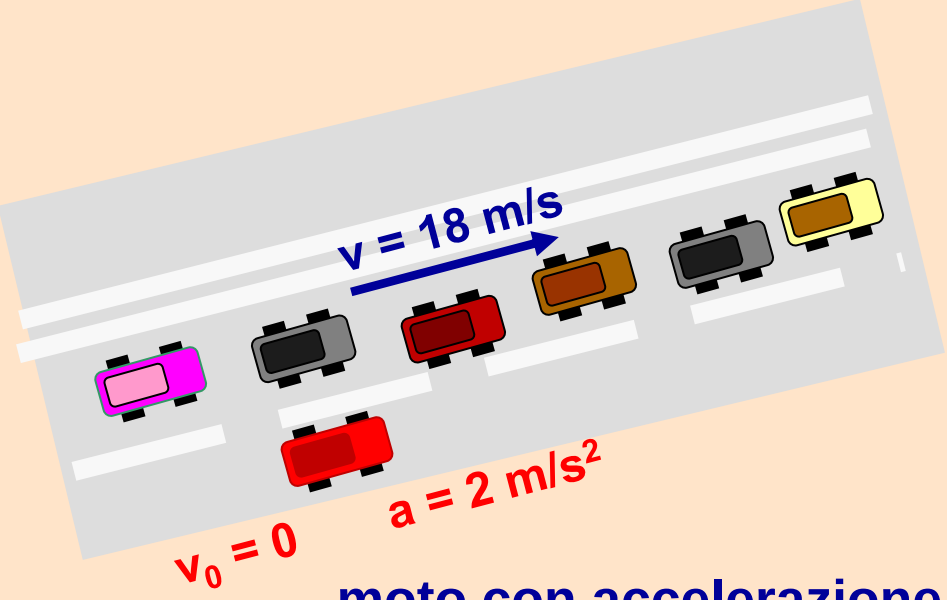

$$a = (v - v_0) / \Delta t$$

$$t = v / a$$

tempo impiegato per raggiungere v = 18 ms^{-1}

$$t = \frac{18\ ms^{-1}}{2\ ms^{-2}} = 9\ s$$

moto con accelerazione costante (uniformemente accelerato)

$$x = x_0 + v_0 t + \tfrac{1}{2} a t^2$$

$x_0 = 0 \quad v_0 = 0$

$$x = \tfrac{1}{2} a\ \Delta t^2$$

$$x = \tfrac{1}{2}\ (2\ ms^{-2})\ (9\ s)^2 = 81\ m$$

Un’automobile passa dalla velocità di 50 km/h alla velocità di 20 km/h con una frenata uniforme che dura un minuto. Calcolare l’accelerazione e lo spazio percorso.

Un’automobile passa dalla velocità di 50 km/h alla velocità di 20 km/h con una frenata uniforme che dura un minuto. Calcolare l’accelerazione e lo spazio percorso.

$$v_1 = 50 \text{ km/h} = \frac{50 \times 10^3 \text{ m}}{3.6 \times 10^3 \text{ s}} = 13.9 \text{ ms}^{-1}$$

$$v_2 = 20 \text{ km/h} = 5.6 \text{ ms}^{-1}$$

Un'automobile passa dalla velocità di 50 km/h alla velocità di 20 km/h con una frenata uniforme che dura un minuto. Calcolare l'accelerazione e lo spazio percorso.

$$v_1 = 50 \text{ km/h} = \frac{50 \times 10^3 \text{ m}}{3.6 \times 10^3 \text{ s}} = 13.9 \text{ ms}^{-1}$$

$$v_1 = 20 \text{ km/h} = 5.6 \text{ ms}^{-1}$$

$$a = \frac{v_2 - v_1}{\Delta t}$$

$$a = \frac{5.6 \text{ ms}^{-1} - 13.9 \text{ ms}^{-1}}{60 \text{ s}} = -0.14 \text{ m s}^{-2}$$

accelerazione negativa → decelerazione

Un'automobile passa dalla velocità di 50 km/h alla velocità di 20 km/h con una frenata uniforme che dura un minuto. Calcolare l'accelerazione e lo spazio percorso.

$$v_1 = 50 \text{ km/h} = \frac{50 \times 10^3 \text{ m}}{3.6 \times 10^3 \text{ s}} = 13.9 \text{ ms}^{-1}$$

$$v_2 = 20 \text{ km/h} = 5.6 \text{ ms}^{-1}$$

$$a = \frac{v_2 - v_1}{\Delta t} \qquad a = \frac{5.6 \text{ ms}^{-1} - 13.9 \text{ ms}^{-1}}{60 \text{ s}} = -0.14 \text{ m s}^{-2}$$

accelerazione negativa → decelerazione

Moto uniformemente accellerato $x = x_0 + v_0 t + \frac{1}{2} a t^2$

$x = \frac{1}{2} a \Delta t^2 + v_1 \Delta t$

$$x = \frac{1}{2} (-0.14 \text{ ms}^{-2}) \cdot (60 \text{ s})^2 + (13.9 \text{ ms}^{-1}) \cdot (60 \text{ s}) = 582 \text{ m}$$